Ali ima traktor prednost pred vami?

- X Da, zaradi desnega pravila
- Ne, zaradi pravila srečanja



Kako ravnate na tem križišču?

- Križišče prevozim prvi
- X Počakam motorno kolo in odpeljem pred [illegible] avtomobilom
- Zaradi prometnega znaka Ustavi [illegible] križišče prevozim zadnji



Po katerem vrstnem redu bodo vozila prevozila križišče?

- Rdeči osebni avtomobil, rumeni osebni [illegible] zeleni osebni avtomobil
- Rumeni in rdeči osebni avtomobil istočasno [illegible] zeleni osebni avtomobil
- X Zeleni in rdeči osebni avtomobil istočasno [illegible] rumeni osebni avtomobil



Po kateri zamišljeni črti se mora v prikazani situaciji voznik rumenega osebnega avtomobila vključiti na krožno križišče?

- Le po črti A
- X Le po črti B
- Vseeno, saj velja pri uvozu na krožno križišče prosta izbira prometnih pasov.

Na semaforju se je prižgala zelena luč. Zeleni osebni avtomobil je zaradi gostote prometa ostal na križišču. Kaj boste storili?

- X Počakam, da zeleni osebni avtomobil zapusti križišče.
- Hitro speljem in prevozim križišče pred zelenim osebnim avtomobilom.
- Zapeljem na križišče in energično opozorim voznika, da ni ravnal pravilno.

[illegible] pravilno odgovori!

Na črto vpišite razdaljo od mesta postavitve prometnega znaka (zunaj naselja) do mesta, ki ga označuje!

3

150 - 250 m

3

600 m

3

150 - 250 m

3

10 m

3

3 - 10 m

3

Na kaj morate biti pozorni, ko nadaljujete vožnjo mimo tega prometnega znaka?

- Na nevarnost velike količine vode na vozišču.
- Na nevarnost padajočega kamenja.
- X Na nevarnost nevaljanega gramoza ali drobnega kamenja, ki je na vozišču.

4

Kaj pomeni ta prometni znak?

- X Prepovedan promet vozilom, katerih skupna širina presega 2,2 m.
- Prepovedan promet vozilom, katerih skupna višina presega 2,2 m.
- Prepovedan promet vozilom, katerih skupna dolžina presega 2,2 m.

4

Kako ravnate pri tem prometnem znaku?

- Obvezno parkiram na levi strani.
- X Obvezno vozim mimo objekta na vozišču po levi strani.
- Obvezno ustavim za tem prometnim znakom.
- Obvezno zavijem na levo.

2

Kako ravnate, ko se približujete mestu, ki je označen s tem prometnim znakom? (Pravilna sta dva odgovora ali več.)

- Vožnjo nadaljujem z isto hitrostjo, saj je ta prometni znak namenjen kolesarjem.
- X Povečam pozornost na ravnanja kolesarjev.
- X Vožnjo nadaljujem s takšno hitrostjo, da lahko pred prehodom varno ustavim.
- S svetlobnimi in z zvočnimi opozorilnimi znaki opozarjam kolesarje na svojo prisotnost.

3

A B C D

Mimo katerih prometnih znakov je prepovedan promet za vsa vozila? (Pravilna sta dva odgovora ali več.)

- Mimo prometnega znaka A.
- Mimo prometnega znaka B.
- X Mimo prometnega znaka C.
- X Mimo prometnega znaka D.